Drodzy maturzyści! Do jutra musicie zdecydować, co zdawać na maturze. Nie jest to łatwe, dlatego od środy codziennie drukujemy przykładowe testy maturalne. Dziś – geografia, jutro – biologia i historia. W przyszłym tygodniu – poziom rozszerzony

Matura z geografii

Przykładowy test dla poziomu podstawowego

Zadania 1-9 wykonaj na podstawie załączonej mapy turystycznej „Jezioro Rożnowskie"

Zadanie 1. (0-2)

Odszukaj na mapie i wpisz do tabeli nazwy opisanych obiektów.

Lp.	Obiekt	Nazwa
1	Wzniesienie o wysokości 459 m n.p.m. położone w bezpośrednim sąsiedztwie zapory	....
2	Obiekt przemysłowy położony na południowych stokach Białowodzkiej Góry (G1)	.....
3	Miejscowość z ruinami dwóch zamków i zabytkowym dworem	.....
4	Duża miejscowość turystyczna położona przy drodze nr 75, około 5 km na południowy wschód od lotniska Aeroklubu Podhalańskiego	.....

Zadanie 2. (0-1)

Całkowita długość zapory na mapie wynosi 11 mm.
Oblicz długość zapory w terenie. Zapisz obliczenia.

Zadanie 3. (0-1)

Uzupełnij zdania, wpisując odpowiednie dane wybrane z podanych:
218 m; 265 m n.p.m.; 483 m n.p.m.; 265 m; 218 m n.p.m.

Wysokość bezwzględna szczytu Ostrej Góry (C3) .....

Wysokość bezwzględna poziomu wody w Jeziorze Rożnowskim .....

Wysokość względna szczytu Ostrej Góry w odniesieniu do poziomu wody w Jeziorze Rożnowskim .....

Zadanie 4. (0-1)

Podaj dwie cechy środowiska przyrodniczego, które zadecydowały o lokalizacji lotniska Aeroklubu Podhalańskiego.
1. .....
2. .....

Zadanie 5. (0-1)

Wskaż miejscowość położoną na zachodnim brzegu Jeziora Rożnowskiego najlepiej przystosowaną do pełnienia funkcji rekreacyjno-wypoczynkowej. Odpowiedź uzasadnij, podając dwa argumenty.
Miejscowość .....
Argumenty
1. .....
2. .....

Zadanie 6. (0-2)

Podaj dwa przykłady korzyści i dwa przykłady uciążliwości dla mieszkańców miejscowości położonych nad Jeziorem Rożnowskim, które wynikają z rekreacyjnej funkcji jeziora.
Korzyści
1. .....
2. .....

Uciążliwości
1. .....
2. .....

Zadanie 7. (0-1)

Wskaż poprawny opis trasy, którą można najkrótszą drogą dojechać samochodem ciężarowym sprzed kościoła w Rożnowie (B3) do Witowic Górnych (B2).

A. Jedziemy w kierunku południowo-zachodnim, za zaporą skręcamy w prawo i dalej przez Zagórze, Witowice Dolne dojeżdżamy do Witowic Górnych.
B. Jedziemy na północny zachód przez most na Dunajcu i dalej drogą asfaltową wzdłuż niebieskiego szlaku do Łaz, z których jedziemy do Witowic Dolnych, gdzie skręcamy na południe do Witowic Górnych.
C. Jedziemy na północny zachód przez most na Dunajcu, za mostem skręcamy w prawo i dalej drogą asfaltową przez Gierową do Witowic Dolnych, tu skręcamy na północ do Witowic Górnych.
D. Jedziemy w kierunku północno-wschodnim, za restauracją skręcamy w lewo, jedziemy przez most na Dunajcu, dalej przez Gierową do Witowic Dolnych, tu skręcamy na południe do Witowic Górnych.

Zadanie 8. (0-2)

Obszary w kwadratach (C5) i (D2) różnią się pod względem wykorzystania środowiska naturalnego do tworzenia miejsc pracy.
Uzupełnij tabelę, wpisując odpowiednie informacje dotyczące wskazanych obszarów.

Obszar	Zagospodarowanie (dominujący rodzaj zagospodarowania)	Cecha środowiska umożliwiająca wskazane zagospodarowanie	Sektor gospodarki dający zatrudnienie miejscowej ludności
C 5			
D2			

Zadanie 9. (0-2)

W każdym zdaniu skreśl jedno określenie, tak aby zdania wskazywały zmiany klimatu lokalnego wynikające z utworzenia sztucznego jeziora.
Wzrost/spadek wilgotności powietrza.
Zwiększenie/zmniejszenie dobowych amplitud temperatury powietrza.
Wzrost/spadek temperatury powietrza w okresie zimowym.
Zwiększenie/zmniejszenie liczby dni z opadami deszczu i zamgleniami.

Zadanie 10. (0-1)

W każdym zdaniu skreśl jedno określenie, tak aby zdania były prawdziwe.
21 marca Słońce góruje w zenicie nad **równikiem/zwrotnikiem Raka.**
W czasie astronomicznego lata dni są dłuższe niż noce na półkuli **północnej/południowej.**
W czasie astronomicznej zimy na biegunie południowym panuje **noc polarna/dzień polarny.**

Dokończenie na – s. 26 ▸▸▸

▸▸▸ Dokończenie ze s. 25

Zadanie 11. (0-1)

Fotografia przedstawia rzeźbę wysokogórską Tatr.

IWONA BURDZANOWSKA

Podaj po jednym przykładzie procesu geologicznego wewnętrznego i zewnętrznego, które wpłynęły na współczesną rzeźbę obszaru przedstawionego na fotografii.

Proces wewnętrzny .....

Proces zewnętrzny .....

Zadanie 12. (0-1)

Wpisz numery, którymi na rysunku oznaczono:

Pas niskiego ciśnienia.....

Strefę wyżów.....

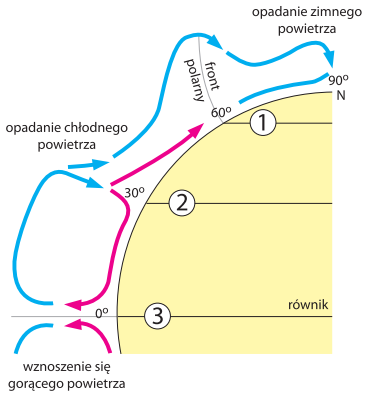

Zadanie 13. (0-2)

Opisz cyrkulację międzyzwrotnikową powietrza, używając podanych określeń.

Prądy wstępujące, prądy zstępujące, pasat, wyż, niż, powietrze ciepłe i suche, powietrze gorące i wilgotne.

.....

Zadanie 14. (0-2)

Wpisz do tabeli nazwy mas powietrza, których napływ nad Polskę w podanych porach roku przynosi zazwyczaj podane zmiany pogody. Masy powietrza dobierz z podanych: polarne morskie, zwrotnikowe kontynentalne, arktyczne.

Pora roku	Typowe zmiany pogody	Masy powietrza napływające nad Polskę
Zima	Odwilż, opady śniegu lub śniegu z deszczem	
Wiosna (pierwsza połowa maja)	Znaczne ochłodzenie, przygruntowe przymrozki	
Lato	Bezchmurne niebo, upały dochodzące do 30°C	
Lato	Ochłodzenie, opady deszczu	

Zadanie 15. (0-3)

Wyjaśnij, podając główny czynnik klimatyczny, różnice warunków klimatycznych w podanych miastach Polski.

a) Roczna amplituda temperatury powietrza jest mniejsza we Wrocławiu niż w Lublinie.

Czynnik klimatyczny .....

Wyjaśnienie .....

.....

b) Roczna suma opadów jest większa w Jeleniej Górze niż we Wrocławiu.

Czynnik klimatyczny .....

Wyjaśnienie .....

.....

c) Okres wegetacji jest dłuższy w Krakowie niż w Zakopanem.

Czynnik klimatyczny .....

Wyjaśnienie .....

.....

Zadanie 16. (0-2)

Uzupełnij zdania, wpisując właściwe terminy geograficzne.

a) Czasowe zatrzymanie wody w zlewni (okresowe wyłączenie części wód z obiegu) to

.....

b) Zestawienie strat i zysków wody w ciągu roku na określonym obszarze nazywamy

.....

Zadanie 17. (0-1)

Podkreśl czynniki sprzyjające dużemu zasoleniu wód morskich.

A. Niska temperatura powietrza.
B. Wysokie parowanie wody.
C. Duży dopływ wód lądowych.
D. Pustynny klimat obszaru otaczającego morze.

Zadanie 18. (0-1)

W Tatrach granica wiecznego śniegu przebiega na wysokości około 2300 m n.p.m.

Wyjaśnij, dlaczego obecnie nie tworzą się w Tatrach lodowce górskie, pomimo że najwyższe partie tych gór położone są powyżej tej granicy.

.....

Zadanie 19. (0-2)

Wpisz typy gleb strefowych występujących w Polsce obok warunków, w których one powstają.

a) Powstają w strefie umiarkowanej pod lasami iglastymi na podłożu piaszczystym w środowisku kwaśnym .....

b) Powstają w strefie umiarkowanej ciepłej pod lasami liściastymi i mieszanymi w środowisku kwaśnym .....

c) Rozwinęły się w klimacie kontynentalnym umiarkowanym suchym, pod roślinnością stepową z utworów zasobnych w wapń, głównie z lessów .....

Zadanie 20. (0-1)

„Twardolistne lasy i zarośla przez cały rok zielone. Drzewa i krzewy są niewysokie, silnie rozgałęzione, kolczaste, mają skórzaste lub igiełkowate liście. Twardolistne zarośla zwane są makią".

Zaznacz właściwe zakończenie zdania.

Opisany typ roślinności występuje w warunkach klimatu

A. równikowego.
B. śródziemnomorskiego.
C. umiarkowanego ciepłego.
D. umiarkowanego chłodnego.

Zadanie 21. (0-2)

Przedstaw wpływ odkrywkowej eksploatacji węgla brunatnego na rzeźbę terenu oraz wody podziemne.

.....

Zadanie 22. (0-1)

Uzupełnij tabelę, wpisując wielkość plonów pszenicy w Polsce w roku 2005.

Uprawa pszenicy w Polsce w roku 2005

Powierzchnia w tys. ha	Zbiory		Plony w dt/ha
	W tys. ton	Udział w świecie w %	
2218	8771	1,4	

Zadanie 23. (0-2)

Przyporządkuj podanym typom rolnictwa charakterystyczne dla nich cechy oraz obszary (regiony), na których występują. Wpisz do tabeli cyfry i litery, którymi oznaczono informacje.

Cechy rolnictwa:
1. duża mechanizacja i automatyzacja
2. duże nakłady pracy ludzkiej
3. małe nakłady pracy ludzkiej i środków produkcji

Obszary:
A. Uprawa zbóż w obszarach środkowych Stanów Zjednoczonych
B. Uprawa ryżu w Azji Południowej
C. Uprawa pszenicy w Holandii

Typy rolnictwa	Cechy	Obszar
Ekstensywne		
Intensywne pracochłonne		
Intensywne kapitałochłonne		

Zadanie 24. (0-1)

Zaznacz cechy charakteryzujące rolnictwo Polski w początkowym okresie przemian politycznych i gospodarczych (po 1989 roku).

A. Duże rozdrobnienie gospodarstw indywidualnych.
B. Wysoka specjalizacja produkcji.
C. Zbyt małe zatrudnienie w rolnictwie.
D. Niedoinwestowanie.

Zadanie 25. (0-3)

Przedstaw problemy związane z restrukturyzacją górnictwa węgla kamiennego w Górnośląskim Okręgu Przemysłowym. Podaj przyczynę restrukturyzacji, wyjaśnij, na czym ona polega, i zapisz jedną z konsekwencji tego procesu.

Przyczyna .....

Wyjaśnienie (na czym polega restrukturyzacja) .....

Przykład konsekwencji restrukturyzacji .....

Zadanie 26. (0-3)

Warunki przyrodnicze mają znaczący wpływ na zróżnicowanie gęstości zaludnienia w Azji.

Korzystając z mapy i własnej wiedzy, podaj trzy przykłady ilustrujące postawioną tezę, uwzględniając trzy różne kraje lub regiony.

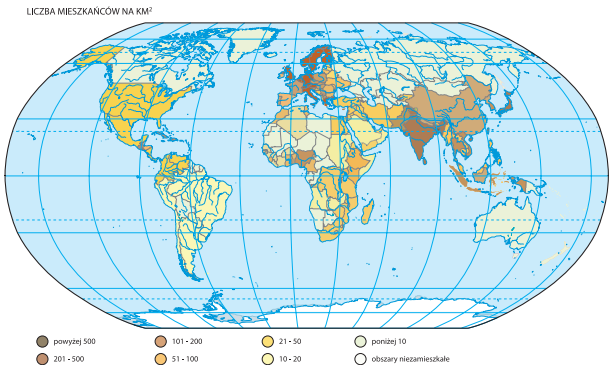

1. .....
.....
2. .....
.....
3. .....
.....

Zadanie 27. (0-2)

Wykres przedstawia strukturę płci i wieku ludności w Polsce w roku 2003.

Wpisz litery, którymi na wykresie zaznaczono okresy:

a) Wyżu demograficznego - .....
b) Niżu demograficznego - .....
c) Największego wskaźnika feminizacji - .....
d) Systematycznie malejącego przyrostu naturalnego - .....

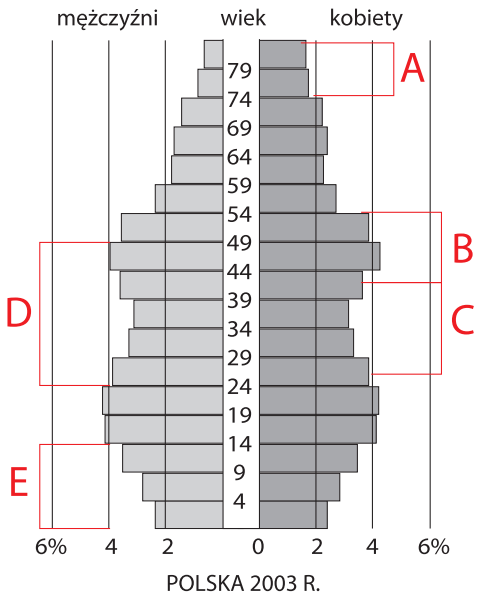

Zadanie 28. (0-2)

Źródłem najbardziej krwawego konfliktu w Europie od zakończenia II wojny światowej było wyjątkowe zróżnicowanie etniczno-narodowościowo-religijne tego państwa. W końcu lat 80. miało ono dwa alfabety (łaciński i cyrylicę), trzy religie (prawosławie, katolicyzm i islam), cztery języki i pięć narodów.

Na podstawie podanych informacji uzupełnij schemat obrazujący rozpad państwa na sześć krajów (uwzględnij podział polityczny po 2006 roku).

Zadanie 29. (0-2)

Korzystając z zamieszczonej mapy, przyporządkuj podane kraje do odpowiednich regionów polityczno-gospodarczych.

Kraje: Boliwia, Egipt, Irak, Kazachstan, Peru, Polska, Rumunia, Tajlandia, Białoruś, Wietnam.

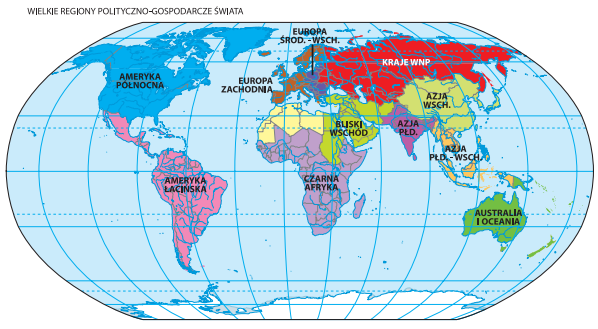

Regiony	Kraje
Europa Środkowo-Wschodnia	
Bliski Wschód	
WNP	
Azja Południowo-Wschodnia	
Ameryka Łacińska	

Zadanie 30. (0-2)

Wpisz nazwy polskich miast (miejscowości), w których znajdują się podane obiekty wpisane na Listę Światowego Dziedzictwa Kulturalnego i Przyrodniczego.

Zamek krzyżacki .....
Sanktuarium z terenem Drogi Krzyżowej .....
Zabytkowa kopalnia soli .....
Były nazistowski niemiecki obóz koncentracyjny .....
Stare Miasto z Wawelem .....
Stare Miasto z kolumną króla Zygmunta III Wazy .....
Historyczne centrum renesansowego miasta twierdzy .....

CODZIENNIE W GAZECIE
Maturzysto! Sprawdź, czy zdasz
Testy maturalne – poziom podstawowy
Partner radiowy:
RMF
jutro – biologia i historia
Testy z poziomu rozszerzonego – od wtorku 2 października